EVAL. U9 MATEMÁTICAS ABN 3º PRIMARIA	FECHA:
NOMBRE:	CURSO:

1.- ¿Qué producto representan estas manos?

A)

☐ X ☐

B)

☐ X ☐

C)

☐ X ☐

D) 

☐ X ☐

2.- Escribe el resultado de los productos anteriores.

A.- _____ B.- _____ C.- _____ D.- _____

3.- Realiza los siguientes productos por decenas.

69 x 7		

86 x 6		

4.- Realiza los siguientes productos por centenas.

138 x 7		

179 x 6		

5.- Completa las tablas (Puedes hacer las multiplicaciones en rejilla si lo necesitas).

DÍAS	HORAS
2	
3	

HORAS	MINUTOS
4	
5	

6.- Completa las tablas (Puedes hacer las divisiones si lo necesitas).

HORAS	DÍAS
24	
48	

MINUTOS	HORAS
60	
120	

7.- En un estuche de ceras entran 7 colores. ¿Cuántos colores caben en seis estuches?

☐ ○ ☐ = ☐

Hay ☐ _____

8.- Una máquina de chocolatinas fabrica 158 tabletas en una hora. ¿Cuántas tabletas hará la máquina en 7 horas?

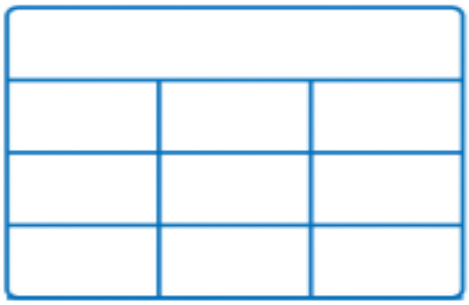

Hay ☐ _____

9.- ¿Cuántas cajitas de 4 bombones se pueden llenar con 44 bombones?

☐ ○ ☐ = ☐

Se pueden hacer ☐ _____

10.- Inventa un problema de dividir a partir de este problema de multiplicar.
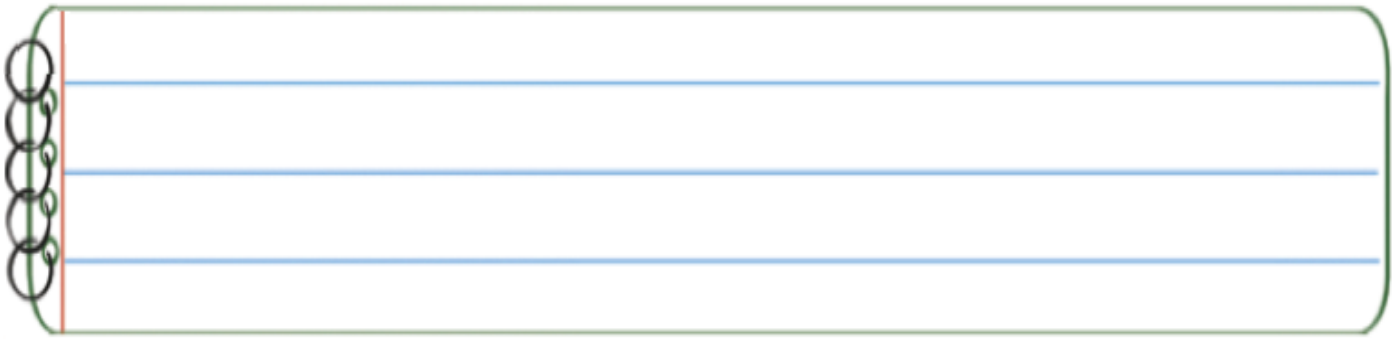
Una docena de huevos tiene 12 huevos. ¿Cuántos huevos tendrán 4 docenas?
12 x 4 = 48. Cuatro docenas de huevos tiene 48 huevos