TALLER DE DISTRIBUCIÓN DE NÚMEROS EN FIGURAS MÁGICAS

Ubica en las casillas los números del 1 al 6, sin repetir, de manera que la suma de dígitos de cada lado del triángulo sea la misma.
Pista: hay 4 respuestas diferentes

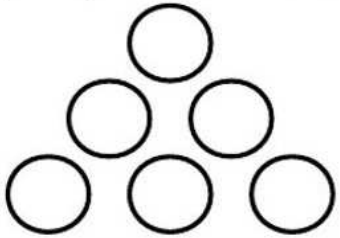

Ubica en las casillas los números del 1 al 9, sin repetir, de manera que la suma de dígitos de cada lado del triángulo sea la misma.
Pista: hay 5 respuestas diferentes.

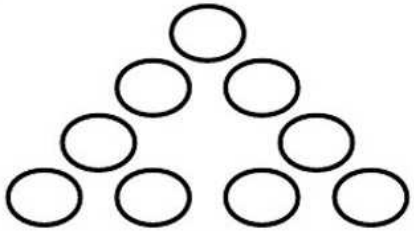

Reemplaza los puntos con los números del 1 al 10, sin repetir, de manera que la suma de los 5 números contenidos en cada círculo sea la misma. Pista: hay 6 respuestas diferentes

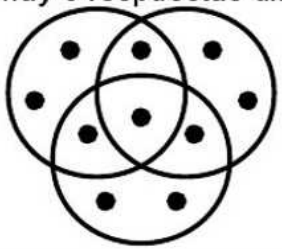

Coloca los números del 1 al 8 de manera que no haya dos números consecutivos en dos círculos directamente conectados por líneas

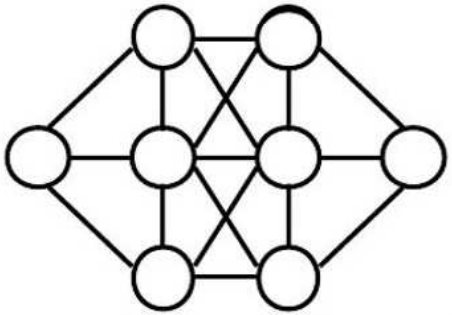

Coloca en cada casilla los siguientes números primos: 5, 7, 11, 13, 17, 19 y 23 de modo que la suma de 3 números conectados en línea de cómo resultado otro número primo.
Pista: el resultado es un primo entre 40 y 50

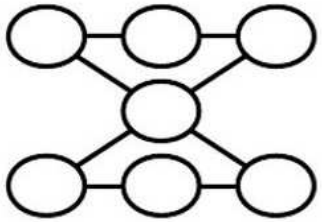

Coloca en cada casilla los siguientes números capicúas: 11, 22, 33, 44, 55, 66 y 77 de modo que la suma de 3 números conectados en línea sumen siempre lo mismo

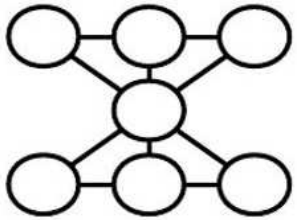

Distribuye los números del 1 al 16 en las casillas de manera que la suma de 4 números conectados en línea recta sea 34; así como la suma de los 4 vértices de cada cuadrado

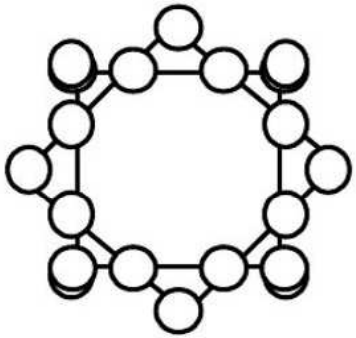

Distribuye los números del 1 al 12 en las casillas de manera que la suma de 4 números conectados en línea recta sea 26.

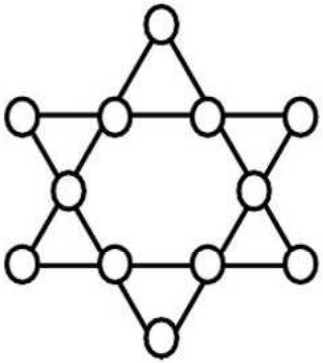

Coloca los números del 1 al 8 de manera que la cifra del cuadrado corresponda a la suma de los 2 círculos vecinos.

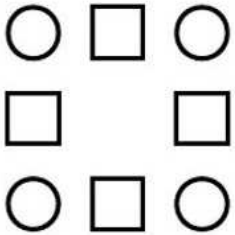

Por Armando Solano Samaniego / Bogotá / Colombia