ALGUNOS DINOSAURIOS

(COMPARACIÓN DE FRACCIONES Y OPERACIONES CON FRACCIONES)

Colegio San Antonio Marianistas
Acreditado Internacionalmente en la Calidad Educativa
TODOS COMPROMETIDOS A FORMAR EN LA FE
ÁREA DE MATEMÁTICA

Escribe mayor que (>), menor que (<), o igual que (=) según corresponda. $\frac{4}{7} \bigcirc \frac{5}{7}$ DIMETRODON	Escribe mayor que (>), menor que (<), o igual que (=) según corresponda. $\frac{2}{3} \bigcirc \frac{3}{4}$ TRICERATOPS	Escribe mayor que (>), menor que (<), o igual que (=) según corresponda. $\frac{3}{5} \bigcirc \frac{12}{20}$ BRONTOSAURUS
Calcula. $\frac{2}{3} \cdot \frac{4}{10} =$ SCELIDOSAURUS	Calcula. $\frac{2}{7} \cdot \frac{3}{5} =$ PLESIOSAURUS	Calcula. $\frac{2}{3} \cdot \frac{1}{4} \cdot \frac{3}{5} =$ PROTOCERATOPS
Calcula. $\frac{3}{15} + \frac{2}{15} =$ CORYTHOSAURUS	Calcula. $\frac{6}{9} + \frac{1}{9} + \frac{2}{9} =$ BRACHIOAURUS	Calcula. $\frac{4}{10} + \frac{1}{10} + \frac{2}{10} =$ HYPSELOSAURUS
Completa y realiza las siguientes operaciones. $\frac{6}{5} + \frac{1}{4} =$ DIPLODOCUS	Completa y realiza las siguientes operaciones. $\frac{5}{3} - \frac{2}{6} =$ STEGOSAURUS	Completa y realiza las siguientes operaciones. $\frac{1}{4} + \frac{2}{4} + \frac{2}{3} =$ MONOCLONIUS

$\frac{29}{54}$ Nombre:	1  Nombre:	$\frac{6}{35}$ REYNALDO CARTOLIN R. Nombre:
= Nombre:	$\frac{4}{3}$ Nombre:	$\frac{7}{10}$ Nombre:
$\frac{4}{15}$ Nombre:	< Nombre:	$\frac{17}{12}$  Nombre:
 Nombre:	$\frac{1}{3}$ Nombre:	$\frac{1}{10}$ > Nombre: