EVAL. U.10 MATEMÁTICAS ABN 4º PRIMARIA	FECHA:
NOMBRE:	CURSO:

1.- Dibuja junto a la “rosa de los vientos” lo que se indica.

A.- Un círculo al SUR B.- Un cuadrado al NORESTE

C.- Una X al SUROESTE D.- Un triángulo al ESTE

2.- Señala en el plano cartesiano los siguientes puntos A, B y escribe las coordenadas de C y D.

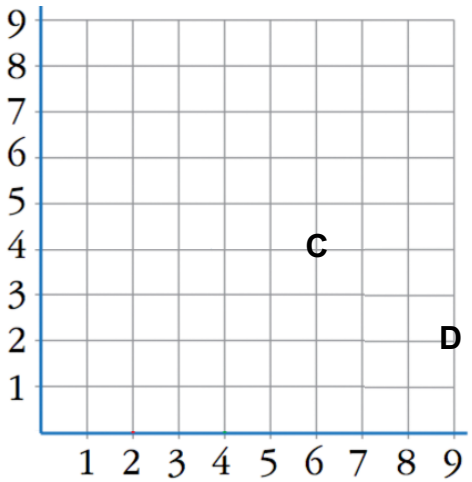

A (2,8)

B (4,2)

C (_____,_____)

D (_____,_____)

3.- Cuál es el nombre de cuerpos geométricos cuyos desarrollos son los siguientes.

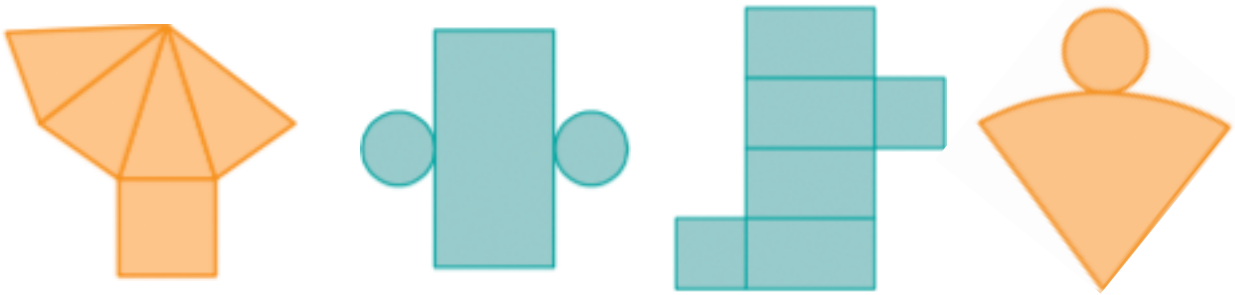

a)_____ b) _____ c) _____ d) _____

_____ _____ _____ _____ _____

4.- Calcula la superficie total de las siguiente caja cuadrada de 3 cm de lado.

3 cm

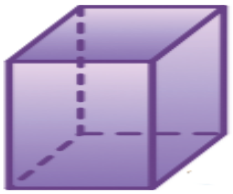

5.- Escribe objeto que conozcas que tengas forma geométrica de:

A.- Cono _____ B.- Cilindro _____

C.- Prima cuadrangular_____ D.- Esfera _____

6.- .- Describe las caras, aristas y vértices de este poliedro.

7.- ¿Qué le tienes que hacer a este cono para tener un tronco de cono? (dibuja el resultado).



8.- ¿Qué nombre recibe la parte de esta esfera

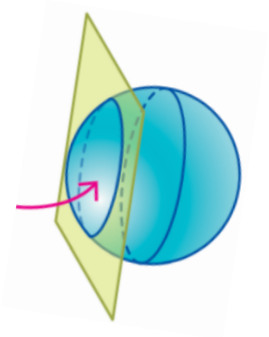

9.- A partir de la siguiente situación contesta las siguientes preguntas.
“ Una camiseta y un pantalón de mi equipo favorito cuestan 128€. la camiseta la he pagado con 3 billetes de 20€ y tres de 10€.”

A.- ¿Cuánto cuesta la camiseta? _____
B.- ¿Cuánto cuesta el pantalón _____
C.- ¿Cuánta es la cantidad que he pagado con billetes de 20€? _____
D.- ¿Cuánta es la cantidad que he pagado con billetes de 10€? _____

10.- ¿Cuál es la pregunta oculta en el siguiente problema? indica el resultado.
“En una caja tengo 98 gusanos y mariposas de la seda. De ellos 35 son gusanos y de las mariposas de seda 15 ya han puesto huevos. ¿Cuántas mariposas no han puesto aún huevos?”

Pregunta oculta: _____