PROBLEMAS ORALES Y MANIPULATIVOS. ABN CUENTO OSO MARRONOSO.

1. SI EL OSO MARRONOSO TIENE 2-3-4-5-6... COCHES. ¿CUÁNTOS LE FALTAN PARA TENER 10-15-20 COCHES ?
2. ¿CUÁNTAS RUEDAS, FAROS, CRISTALES, PUERTAS TIENE 1-2-3-4-5.... ?
3. HACER BOLSITAS CON 10 HABICHUELAS?
4. SI UN PLATO TIENE 5 HABICHUELAS, ¿CUÁNTAS HABICHUELAS NECESITO PARA LLENAR 2-3-4-5... PLATOS?
5. SI EL OSO MARRONOSO TIENE 10 COCHES, PIERDE 2 Y LE REGALAN 3, ¿CUÁNTOS COCHES TIENE AHORA?
6. SI EL COCHE AZUL ESTÁ EN EL Nº 20 Y EL AMARILLO EN EL Nº 10, ¿EN QUÉ NÚMERO SE ENCONTRARÁN?¿CUÁNTOS Nº TIENE QUE RECORRER CADA UNO?
7. SI TENGO 5 . ¿CUÁNTOS NECESITO PARA TENER EL DOBLE?
8. SI TENGO 10 . ¿CUÁNTOS NECESITO PARA TENER EL DOBLE?
9. SI TENGO 6-8-10... Y LOS REPARTO ENTRE DOS AMIGOS. ¿CUÁNTOS LE TENGO QUE DAR A CADA AMIGO?

10. SI TENGO 2 AZULES, 3  AMARILLOS Y 5 VERDES,¿CUÁNTOS TENGO EN TOTAL, CUÁNTOS AZULES Y AMARILLOS, CUÁNTOS AMARILLOS Y VERDES, ¿CUÁNTOS VERDES Y AZULES?

CUENTO MARRONOSO. SUMA

1. SI TIENE 3 CUENTOS Y LE REGALAN 4. ¿CUÁNTOS CUENTOS TIENE AHORA?

2. TIENE 5 CARAMELOS Y SU MADRE LE VA A TRAER ESTA TARDE 5 MÁS. ¿CUÁNTOS CARAMELOS TENDRÁ MARIETA?

3. AL LE QUEDAN 6 LÁPICES DE COLORES, DESPUÉS DE HABER PERDIDO 4. ¿CUÁNTOS LÁPICES TENÍA AL PRINCIPIO?

4. AL LE REGALARON UN RAMO DE FLORES, SE LE SECARON 3 Y AHORA LE QUEDAN 5. ¿CUÁNTAS FLORES TENÍA EL RAMO?

5. TIENE 5 HOJAS Y SU MADRE TIENE 3 FLORES. ¿CUÁNTAS HOJAS Y FLORES TIENEN?

6. EN LA CLASE DEL OSO HAY 8 LÁPICES ROJOS Y 3 LÁPICES AZULES. ¿CUÁNTOS LÁPICES HAY EN TOTAL?

7. SI TIENE 3 MUÑECAS Y 4 BALONES. ¿CUÁNTOS JUGUETES TIENEN ENTRE LAS DOS?

8. EL TIENE 2 FLORES, SI LE DIERAN 5 MÁS TENDRÍA LAS MISMAS QUE SU

¿CUÁNTAS FLORES TIENE SU ?. IGUALACIÓN REAL

9. LA DE TIENE 4 LÁPICES, SI LA MAESTRA LE DA 2 MÁS TENDRÍA LOS MISMOS QUE . ¿CUÁNTOS LÁPICES TIENE ? IGUALACIÓN.

10. TIENE 7 LUNARES. SU PRIMA TIENE 2 LUNARES MÁS QUE

.¿CUÁNTOS LUNARES TIENE ? IGUALACIÓN FICTICIA.

CUENTO MARRONOSO. SUSTRACCION.

1. TIENE 10 BOMBONES Y SE COME 4. ¿CUÁNTOS LE QUEDAN? DETRAER.

2. EN LA CLASE DEL SON 15. SI HAY 10 NIÑAS. ¿CUÁNTOS NIÑOS HAY? DETRAER.

3. TIENE 10 CARAMELOS Y SU TIENE 3 MENOS QUE ELLA. ¿CUÁNTOS CARAMELOS TIENE SU ? DETRAER.

4. TIENE 5 LÁPICES, CUÁNTOS LÁPICES TIENE QUE COGER PARA TENER 10?. AÑADIR HASTA UN TOPE.

5. TIENE 10 CARAMELOS Y SU PRIMA 3. ¿CUÁNTOS CARAMELOS TIENEN QUE DARLE A SU PARA TENER LOS MISMOS QUE ? AÑADIR HASTA UN TOPE.

6. TENÍA 10 HOJAS Y LE HA DADO UNAS POCAS A SU , Y AHORA LE QUEDAN 7. ¿CUÁNTAS HOJAS LE HA DADO A SU ? QUITAR HASTA UN TOPE.

7. HA GANADO 3 FLORES Y AHORA TIENE 10 FLORES. ¿CUÁNTAS FLORES TENÍA AL PRINCIPIO? QUITAR HASTA UN TOPE.

8. TIENE 12 CARAMELOS Y SU PRIMA 5 ¿CUÁNTOS CARAMELOS TIENE QUE COMERSE PARA TENER LOS MISMOS QUE SU ? QUITAR HASTA UN TOPE.

9. TIENE 8 CUENTOS Y SU 4. ¿CUÁNTOS CUENTOS TIENE QUE DARLE A SU PARA QUE LAS DOS TENGAN EL MISMO Nº DE CUENTOS? COMPENSAR O DISTRIBUIR.

10. TIENE 6 PIRULETAS Y TIENE OTRAS 6. LLEGA Y VAN A REPARTIRLAS ENTRE LOS 3. ¿CUÁNTAS TENDRÁN CADA UNO? COMPENSAR O DISTRIBUIR.

MULTIPLICACION Y DIVISION.

1. SI LA MAMÁ DE LE DA AL 2 MANZANAS CADA DÍA. ¿CUÁNTAS MANZANAS LE HA DADO EN 3 DÍAS? PRODUCTO COMO SUMA DE SUMANDOS =.

2. TIENE 2 FLORES Y SU TRES VECES MÁS. ¿CUÁNTAS FLORES TIENE SU ? PRODUCTO COMPARATIVO.

3. Y TIENE 12 FLORES Y QUIERENREPARTÍSELAS. ¿CUÁNTA FLORES TENDRÁ CADA UNA? REPARTO O PARTICIÓN.

4. TIENE 9 CARAMELOS PARA REPARTIR ENTRE 4 AMIGAS. ¿CUÁNTOS CARAMELOS LE DARÁ A CADA AMIGA. AGRUPAMIENTO O CUOTICIÓN.

5. TIENE 20 CARAMELOS PARA REPARTIR. ¿A CUÁNTOS AMIGOS LE PODRÁ DAR 2-4-5 CARAMELOS? AGRUPAMIENTO O CUOTICIÓN.

6. PROBLEMAS CON ENREJADOS.

1. TIENE 5 GLOBOS Y SU LE DA 4 MÁS. ¿CUÁNTOS TIENE AHORA MARIETA? C1

2. TIENE 5 GLOBOS Y LE DA 2 A SU . ¿CUÁNTOS TIENE AHORA MARIETA? C2

3. TIENE 5 GLOBOS Y SU LE DA MÁS. AHORA TIENE 10. ¿CUÁNTOS LE HA DADO SU ?C3

4. LE DA A SU 4 GLOBOS Y AHORA LE QUEDAN 2. ¿CUÁNTOS TENÍA AL PRINCIPO? C4

5. LA DE LE HA DADO 4 GLOBOS A Y AHORA TIENE 9. ¿CUÁNTOS GLOBOS TENÍA ? C5

6. LE HA DADO A SU PRIMA 5 GLOBOS Y AHORA TIENE 5 ¿CUÁNTOS TENÍA ANTES? C6

7. TENÍA 7 Y AHORA LE QUEDAN 5. ¿CUÁNTOS SE LE HAN PINCHADO? DE C4 A C6.

8. TENÍA 7 Y AHORA LE QUEDAN 12. ¿CUÁNTOS LE HAN REGALADO? DE C3 A C5.

9. SE HA COMPRADO 5 Y AHORA TIENE 15. ¿CUÁNTOS TENÍA ANTES¿ DE C5 A C3.

10. MARIETA HIZO AYE 4 PROBLEMAS Y ACABÓ LOS 10 QUE TENÍA EL CUADRENILLO. ¿CUÁNTOS PROBLEMAS TENÍA EL CUADERNILLO? DE C6 A C4.

11. TIENE 5 VERDES Y 4 NARANJAS. ¿CUÁNTOS TIENE? CM1

12. TIENE 9 VERDES Y NARANJAS. SI TIENE 9 EN TOTAL. ¿CUÁNTOS NARANJAS TIENE? CM2

13. TIENE 10 Y SU TIENE 4. ¿CUÁNTOS MÁS QUE SU TIENE ? CP1

14. TIENE 10 Y SU TIENE 4. ¿CUÁNTOS MENOS TIENE SU ? CP2

15. LA TIENE 4 Y TIENE 6 MÁS QUE SU . ¿CUÁNTOS

TIENE ? CP3

16. TIENE 10 Y SU TIENE 6 MENOS QUE ELLA. ¿CUÁNTOS TIENE

SU ? CP5

17. LA TIENE 4 Y TIENE 6 MENOS QUE . ¿CUÁNTOS TIENE

? CP6

18. TIENE 10 Y SU TIENE 4. ¿CUÁNTOS MÁS DEBERÍA TENER SU

PRIMA PARA QUE LAS DOS TUVIERAN LA MISMA CANTIDAD DE ? **I1**

19. TIENE 10 Y SU TIENE 4. ¿CUÁNTOS MENOS DEBERÍA TENER

PARA QUE LAS DOS TUVIERAN LA MISMA CANTIDAD DE ? **I2**

20. TIENE 10 Y SU TUVIERA 6 MÁS, LAS DOS TENDRÍAN LOS MISMOS GLOBOS 4. ¿CUÁNTOS TIENE LA ? **I3**

21. LA TIENE 4 GLOBOS, SI TUVIERA 6 MENOS DE LOS QUE TIENE , LAS DOS TENDRÍAN EL MISMO Nº DE ¿ CUÁNTOS TIENE ? **I4**

22. TIENE 10 Y SU TIENE 4. ¿CUÁNTOS TIENE QUE DARLE A SU PARA QUE LAS DOS TENGAN LA MISMA CANTIDAD DE ? **RI1**

23. TIENE 10 Y SU TIENE 4. LE DA A SU HASTA QUE LAS DOS TIENE EL MISMO Nº. ¿ CUÁNTOS LE HA DADO ? **RI2**

24. TIENE 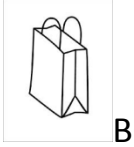 BOLSITAS CON 2 PALILLOS EN CADA UNA. ¿CUÁNTOS CABRÁN EN 5 BOLSITAS 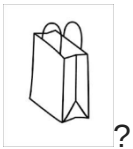 ? **IM1**

25. SI EL TIENE 10 AGRUPADOS EN Y EN CADA BOLSITA HAY 2 ¿CUÁNTAS BOLSITAS TENEMOS? **IM2**

26. SI TIENE 10 Y 5 ¿ CUÁNTOS PONDRÁ EN CADA ? **IM2**

27. EL TIENE 3 Y SU TIENE EL DOBLE. ¿ CUÁNTOS TIENE LA ? **EC1**

28. LA DE TIENE 6 Y TIENE EL DOBLE QUE . ¿CUÁNTOS TIENE LA ? **EC2**

29. EL TIENE 3 Y SU 6 ¿CUÁNTAS VECES MÁS PALILLOS TIENE LA ? **EC3**

30. EL TIENE 3 Y TIENE LA MITAD QUE SU . ¿CUÁNTOS TIENE LA ? **ED1**

31. LA TIENE 6 Y TIENE LA MITAD. ¿ CUÁNTOS TIENE ? **ED2**

32. EL TIENE 3 Y SU 6 ¿CUÁNTAS VECES MEMOS PALILLOS TIENE ? **ED3**