AUTOEVALUACIÓN U11 MATEMÁTICAS ABN 2º PRI	FECHA:
NOMBRE:	CURSO:

1.- Indica los productos de los siguientes manos. Por ejemplo, indica 7 x 8



_____ x _____

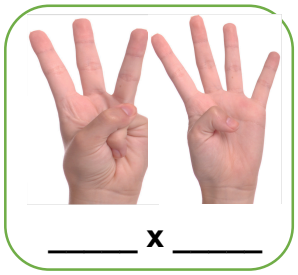

_____ x _____



_____ x _____

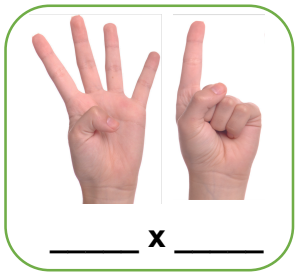

_____ x _____

2.- Escribe los resultados de los productos anteriores.

3.- Calcula los siguientes productos con decenas.

7 6 x 9		

4 9 x 9		

4.- Calcula los siguientes productos con centenas.

1 1 4 x 9		

1 0 6 x 9		

5.- ¿Cómo podrías repartir 606 libros entre 6 librerías? ¿Y entre 3?

		: 6
6 0 6		

		: 3
6 0 6		

6.- Sabiendo que A = 6 y B = 9 averigua.

A + B = _____ B - A =_____

2 A + B = _____ 2 A - B = _____

7.- ¿De cuántos euros debe ser el billete para tener la cantidad indicada?

Dos billetes de [ ] = 10 € Dos billetes de [ ] = 40 €

Tres billetes de [ ] = 150 € Tres billetes de [ ] = 15 €

8.- Pon la letra correspondiente en el lugar que deben estar estas coordenadas.

A.- (2 , 6)
B.- (6 , 2)
C.- (5 , 9)
D.- (9 , 1)

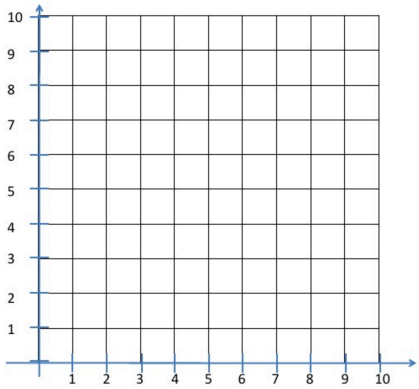

9.- Inventa y resuelve un problema de dividir a partir de este de multiplicar.

En un paquete de refrescos trae seis latas. ¿Cuántas latas traerán en 35 paquetes?

Respuesta: Traerán 210 latas

35 x 6		
30	180	
5	30	
	210	

_____

_____

_____

_____

10.- Dibuja una ampliación y una reducción de este dibujo.